Olimpiada județeană de geografie- proba practică -04 martie 2017
clasa a X-a
Földrajz tantárgyverseny- megyei szakasz- gyakorlati próba – 2017. március. 04.
X. osztály

- În următoarele 9 slide-uri veți observa imagini/fotografii, despre elemente, fenomene sau procese geografice. Identificați după numărul dat la fiecare imagine/fotografie, tipul de fenomen sau proces sau element geografic observat și notați răspunsul pe foaia de lucru.(după numărul imaginii-notați răspunsul vostru)

Timp de lucru 10 minute(1min/slide)

- A következő 9 elektronikus diapozitív fényképein földrajzi jelenségeket, folyamatokat vagy földrajzi elemeket fogtok megfigyelni. Határozzátok meg a fényképeken ábrázolt földrajzi jelenséget, folyamatot vagy földrajzi elemet(-ket), és a fénykép száma alapján írjátok le a vizsgalapra a helyes választ!
- Munkaidő: 10 perc(1perc/diapozitív)

Identificaţi denumirea statelor marcate cu cifre roşii de pe harta alăturată şi formele de guvernământ ale statelor respective!

Nevezzétek meg a piros számokkal jelölt államok neveit és az illető államok kormányzási formáját!

1

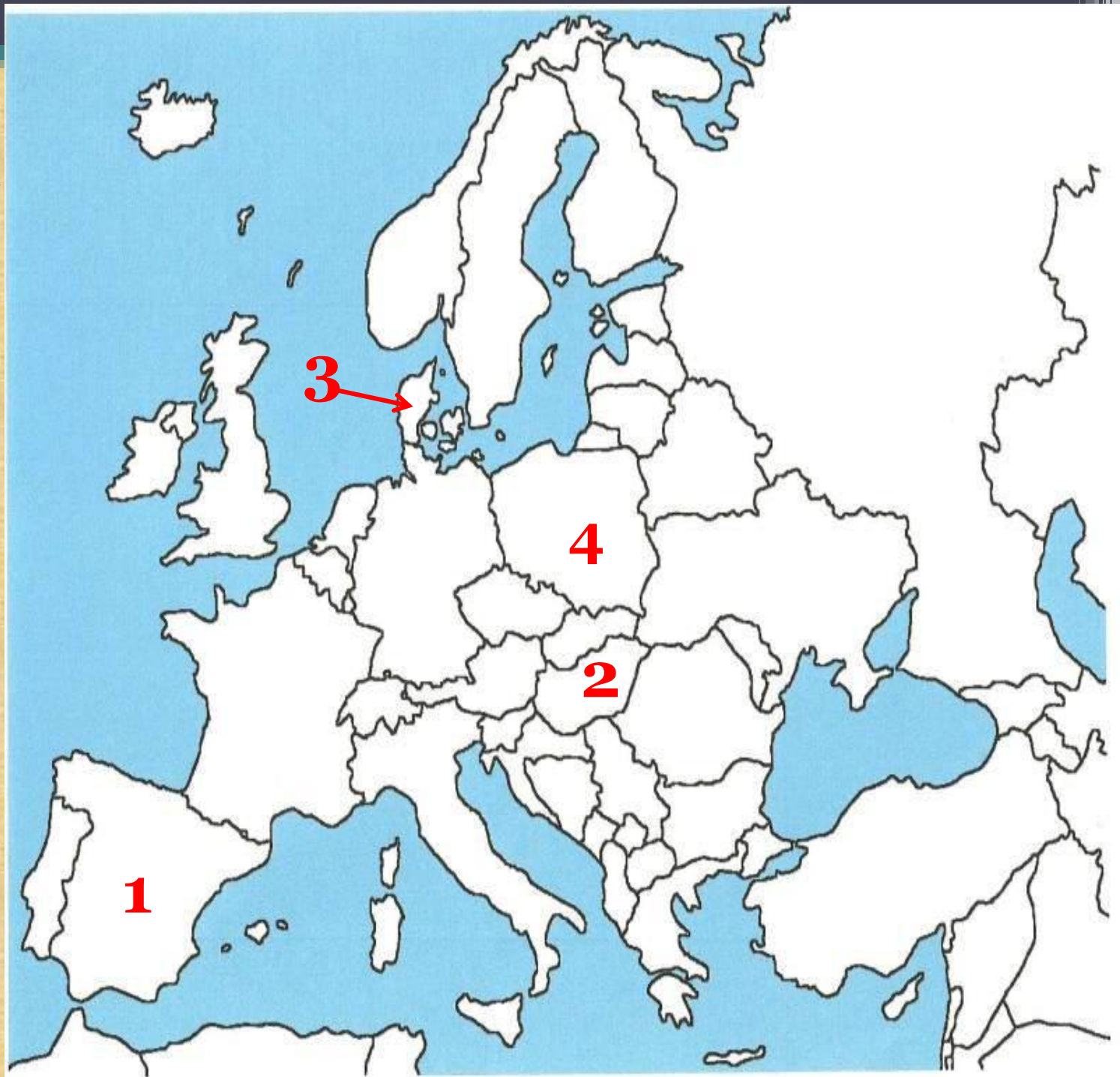

Migrația din imaginile alăturate

este în curs și în zilele noastre!
Denumiți tipul migrației, un stat din care provin migranții, un stat care este destinația migranților, respectiv o cauză care a contribuit la fenomenul respectiv!
A mellékelt képeken ábrázolt népvándorlás napjainkban is zajlik. Nevezd meg a népvándorlás típusát, a menekülteket kibocsájtó és befogadó egy-egy állam nevét, valamint a népvándorlás egy okát !







În imaginile alăturate observăm 2 tipuri de piramide de vârstă. Identificaţi în funţie de grupe de vârstă, tipuri de ţări caracteristice piramidelor marcate cu 3a şi 3b!

A mellékelt ábrákon 2 típusú korpiramist (korfát) figyelhetünk meg. Határozzátok meg, hogy korcsoportok szerint milyen típusú országokra jellemzők a 3a és 3b számokkal jelölt korpiramisok!

3

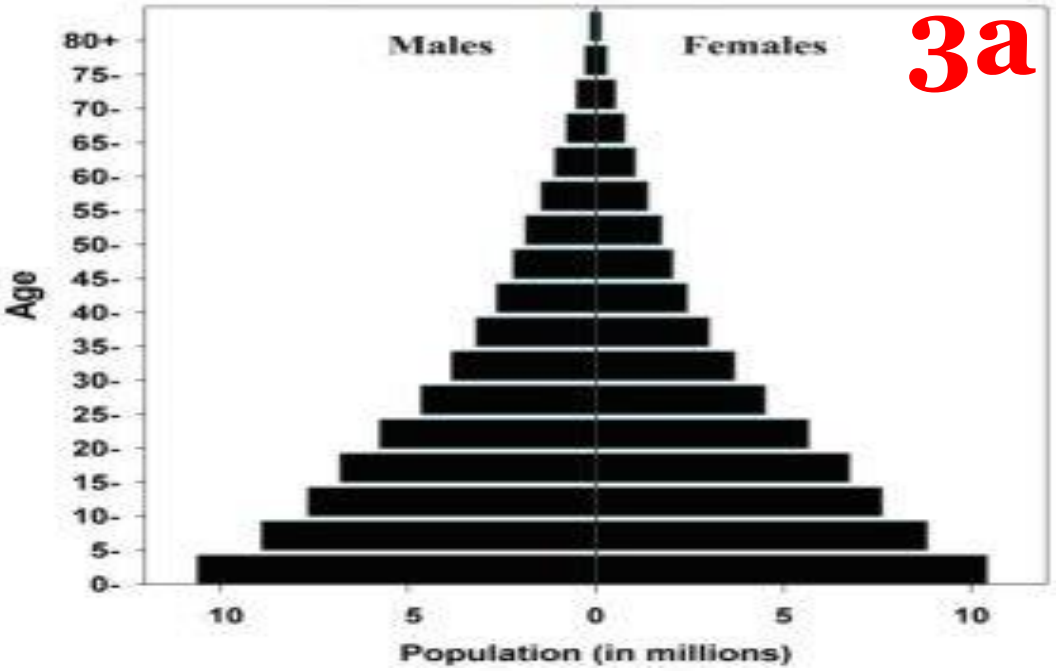

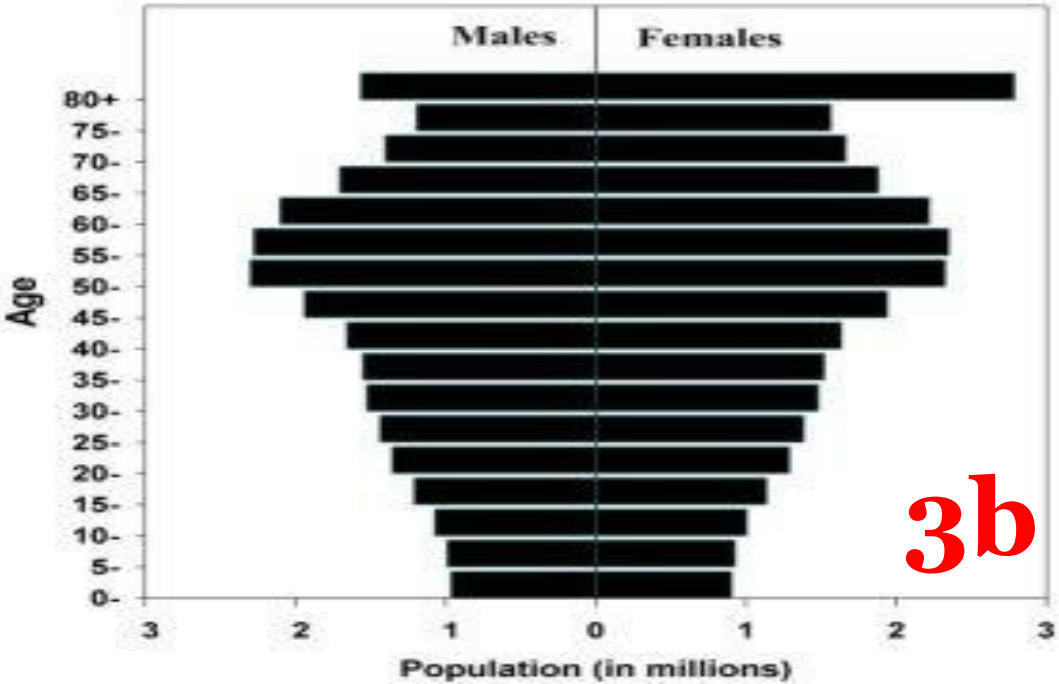

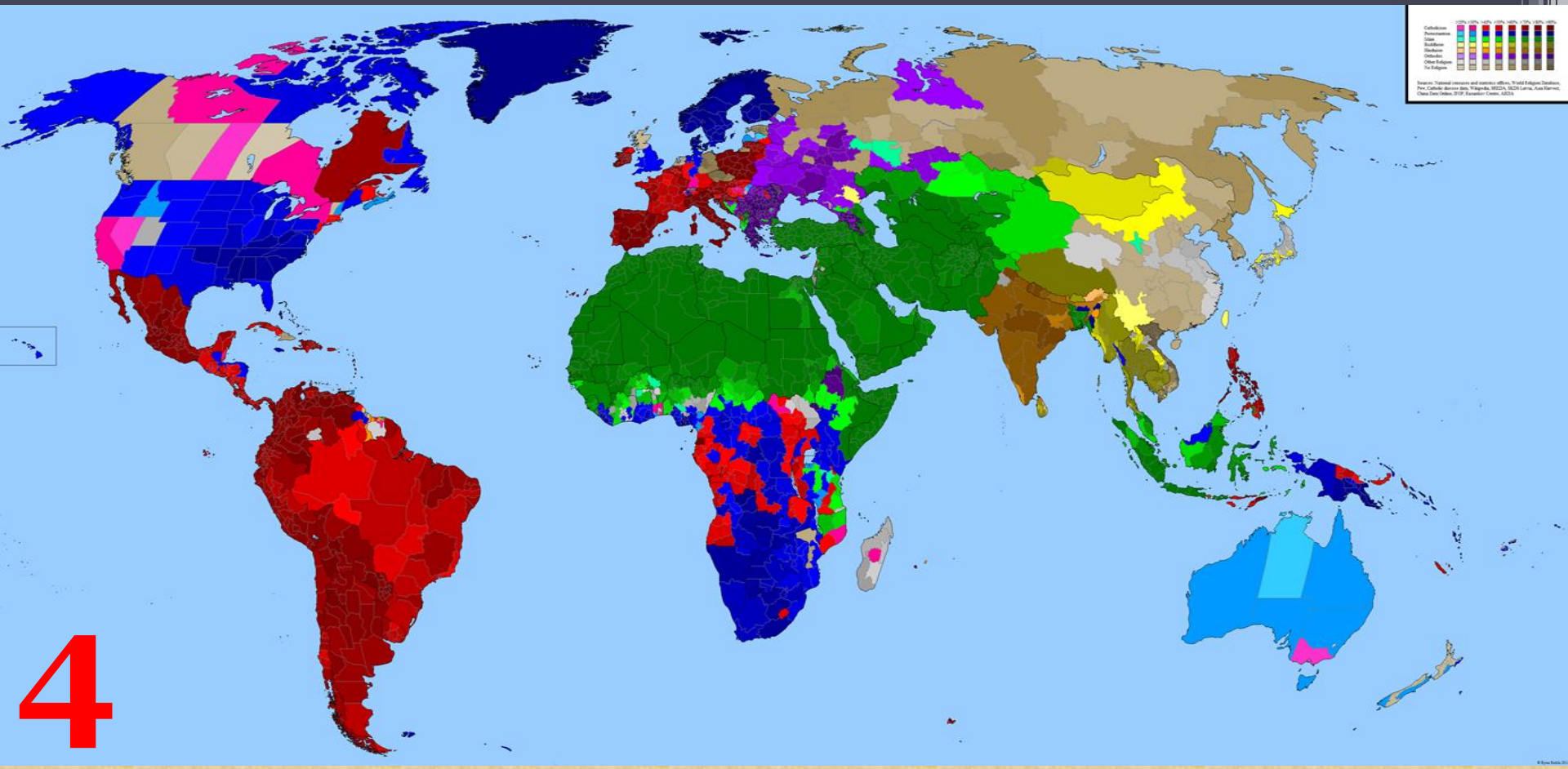

Harta de mai sus arată structura şi răspândirea confesională(religioasă) a populaţiei pe Pământ.Identificaţi religiile colorate pe hartă cu roşu, verde şi violet!

A fenti térkép a világ népességének vallási szerekezetét és elterjedését ábrázolja. Határozzátok meg a piros, zöld és lila színekkel jelölt vallásokat!

Realizați corespondența dintre rasele de om(imaginile de sus) și tipurile de locuințe (imaginile de jos)! Marcați cu linii pe foaia de examen!

Társítsátok össze az emberi fajokat (felső képsor) a nekik megfelelő lakóháztípusokkal (alsó képsor)! Húzzátok össze vonalakkal a vizsgalapon!

5













Identificaţi tipul de plan al oraşelor marcate cu cifrele 6.1 şi 6.2!

Nevezzétek meg a a 6.1 és 6.2 számokkal jelölt városok alaprajztípusait!

6





În imaginile alăturate observăm o metropolă cu o dezvoltare dinamică, construită pe suprafaţa deşertului şi pe mare. Identificaţi numele oraşului, 2 funcţii ale oraşului şi 2 obiecte turistice ale oraşului!

A mellékelt képeken egy dianmikusan fejlődő metropoliszt figyelhetünk meg, amely sivatagra és tengerre épült. Nevezzétek meg a város nevét, 2 városi funkciót és 2 turisztiaki objektumot, nevezetességet az illető városból!











7

8

Identificați tipul mediului de viață din imaginile marcate cu 8.a, 8.b și 8.c!

Határozzátok meg az élettértípusokat a 8.1, 8.2 és 8.3 számokkal jelölt képeken!







Identificați tipurile de funcții din orașele marcate pe imagini cu punctele 9.a, 9.b și 9.c!
Határozzátok meg a városi funkciókat a 9.a, 9.b és 9.c számokkal jelölt képeken!

9





